RECHENANSÄTZE AUFSCHREIBEN; NACHVOLLZIEHBAR ARBEITEN

Name: .....

Datum: _____

# Angewandte Mathematik 1. Schularbeit

C

## 1. Treppe:

Berechnen Sie für die dargestellte Treppe:
- alle offenen Maße
- das Betonvolumen

Rechengänge aufschreiben

8 P

8 ST 17,75/27

SCHNITT 1-1

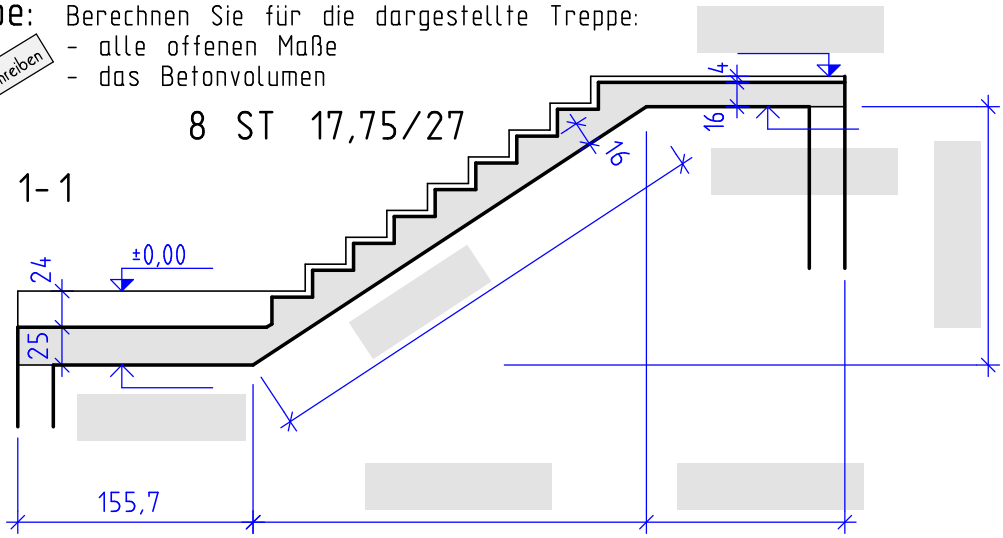


GRUNDRISS

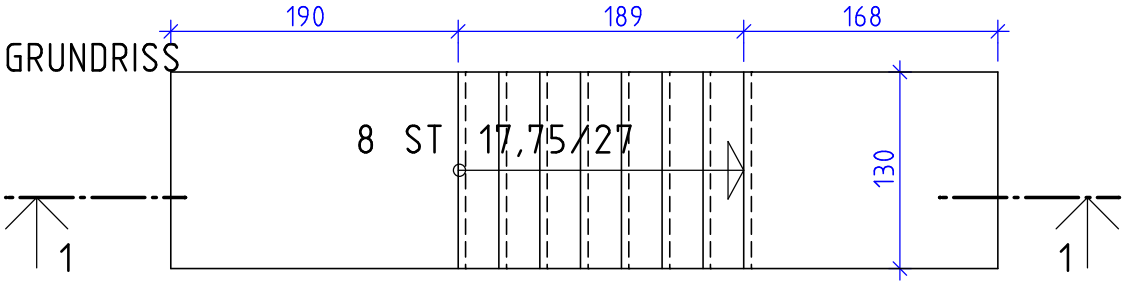


## 2. Laufplattenknick:

Berechnen Sie für die dargestellte Treppe die Lage des Laufplattenknickes.

2 P

18 ST 16,8/29,5

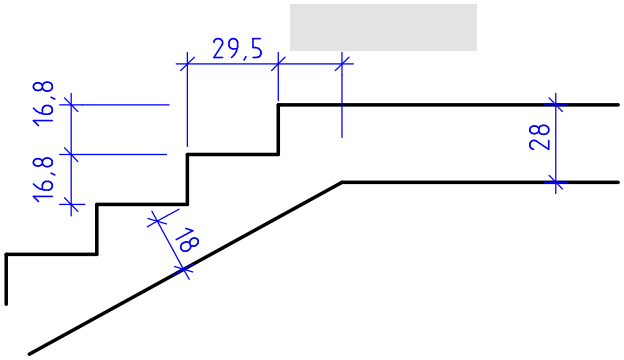


Notenspiegel
19,5-21 Sehr Gut
17-19 Gut
14-16,5 Befriedigend
10,5-13,5 Genügend
0-10 Nicht Genügend

Erstellt mit einer Schulversion von Allplan