Rechenansätze bzw. Rechengänge aufschreiben. Maßlinieneinheit [cm]; Höhenkoteneinheit [m]

A

NAME KLASSE DATUM

In welchem Maßstab ist der Grundriss dargestellt?

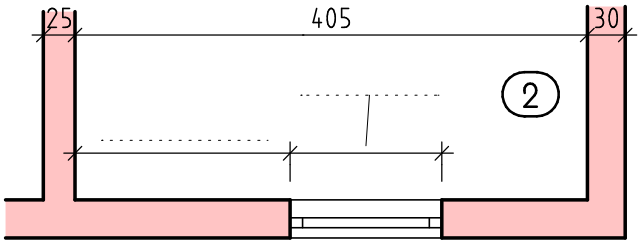

Ergänzen Sie die offenen Maße mit Einheit

Ergänzen Sie die fehlenden Maße bei den Maßlinien und den Höhenkoten.

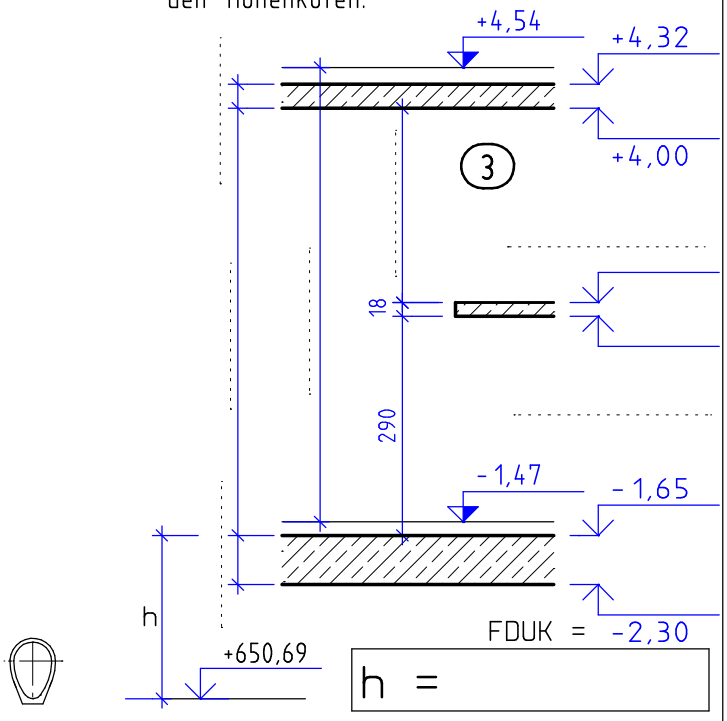

Eine rechteckige Fläche soll im Maßstab M 1:40 dargestellt werden. 1
Länge 3,87m
Breite 1,65m
Verwenden Sie dazu die Blattrückseite.

Berechne Sie den Höhenunterschied h zwischen der OK Bodenplatte und der Kanalsohle. ±0,00 entspricht 654,30

AHA Maurer 209 18. 5. 08

Rechenansätze bzw. Rechengänge aufschreiben. Maßlinieneinheit [cm]; Höhenkoteneinheit [m]

B

NAME KLASSE DATUM

In welchem Maßstab ist die Badewanne dargestellt?

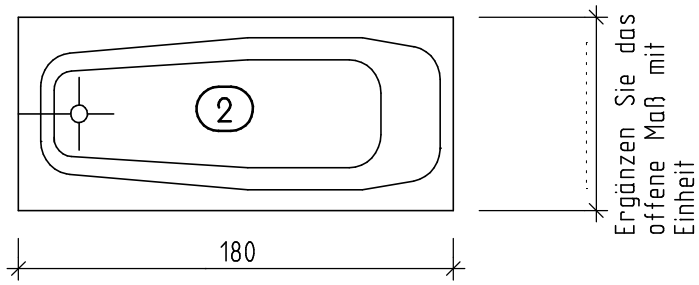

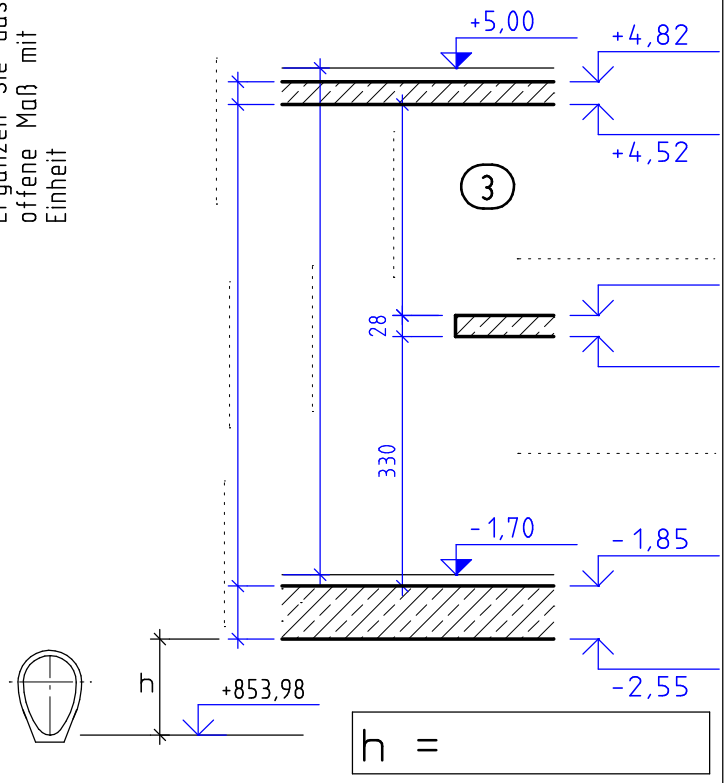

Eine rechteckige Fläche soll im Maßstab M 1:30 dargestellt werden. 1
Länge 3,52m
Breite 1,87m
Verwenden Sie dazu die Blattrückseite.

Berechnen Sie den Höhenunterschied h zwischen der UK Bodenplatte und der Kanalsohle. ±0,00 entspricht 857,60

Erstellt mit einer Schulversion von Allplan

AHA Maurer 209 18. 5. 08